обж	
английский	**Английский язык 9 В Карпова Г.А. (89044631570 – Вайбер, lgkarpova@mail.ru)** **<u>Вторник 1.02</u>**: ознакомиться с Уроком 58 в учебнике. Выполнить задания по ссылке https://onlinetestpad.com/2ki2gsuch3eri Чтение текста с. 20 упр. 6 (часть с) высылают (желательно на вайбер) Балахонцев Д., Богданенко П., Болтунов К., Буянова В., Вагнер Е., Гридина Д.
английский	Задание для 9 В класса на 01.02.21 Упр. 6, стр. 20-21 (незнакомые слова в словарь). Упр. 7, стр. 21 (письменно, составить вопросы). Фото словаря и выполненного задания выслать на gmceschool@mail.ru
химия	Прочитать про углерод. Уметь давать его характеристику по положению в ПС. Выписать аллотропные видоизменения углерода: название, нарисовать кристаллическую решётку, области применения (по каждому).
общество	П19 в 1-8 устно, знать теорию параграфа в (классе и дома зад.3 письменно)стр 160
геометрия	01.02геометрия Учитель: Черемных М.С. эл.п.: cheremnyhmarina@bk.ru Тема: Площадь круга. п.115 **Дз: задачи 8, 9** **9. Задание 16 № 311510** В угол величиной 70° вписана окружность, которая касается его сторон в точках A и B. На одной из дуг этой окружности выбрали точку C так, как показано на рисунке. Найдите величину угла ACB. 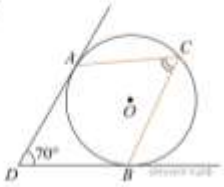 **10. Задание 16 № 311517** Величина центрального угла AOD равна 110°. Найдите величину вписанного угла ACB. Ответ дайте в градусах.

физика	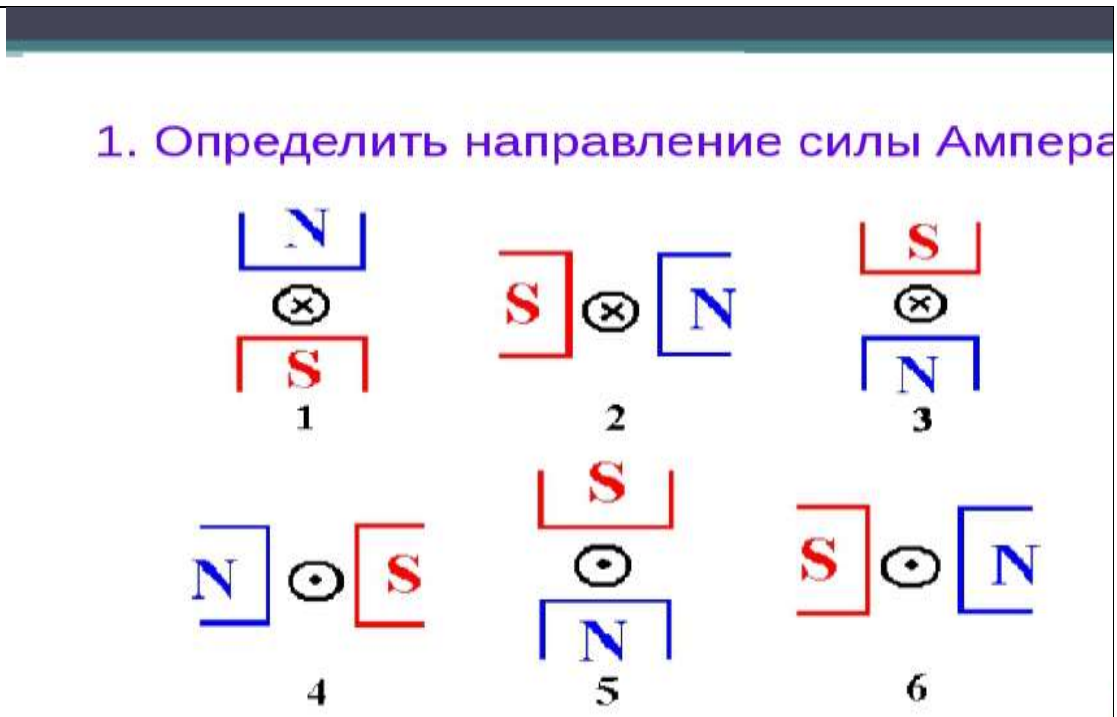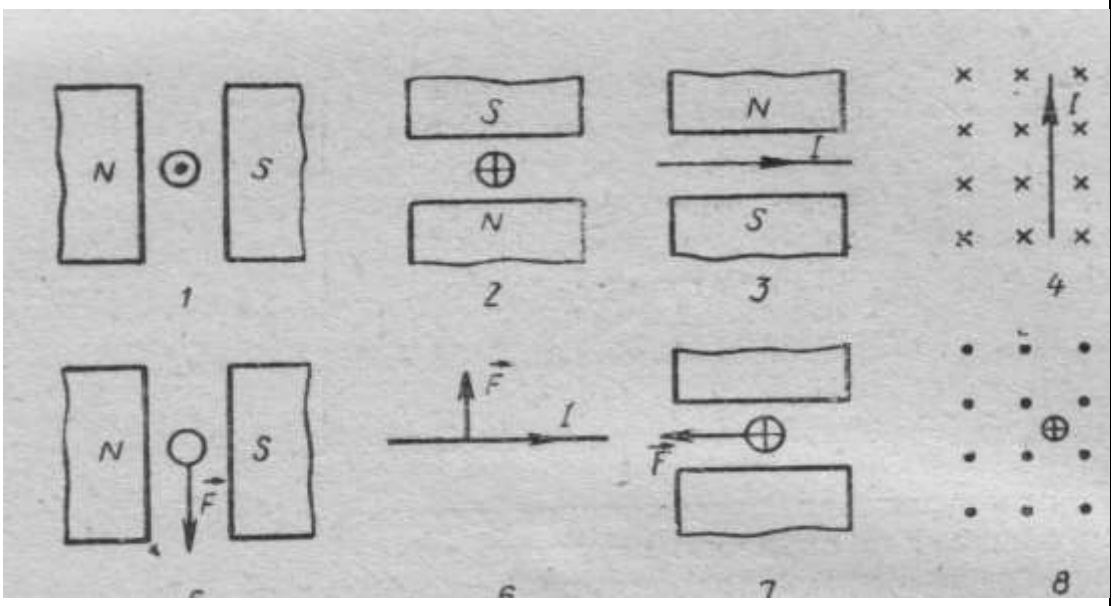
	Карточка №1: рисунок перерисовывать в тетрадь аккуратно, указывать на рисунке направление силы Ампера. Для определения силы Ампера пользоваться правилом левой руки. Фото работ высылать на почту: tatyana.rogacheva.86@mail.ru