Суббота 20.02.2021 9 В класс.

Физика	Определить 1. Определите направление силы, действующую на проводник 2. Определите направление тока 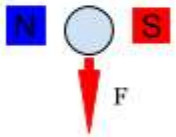 3. Найдите и объясните ошибку 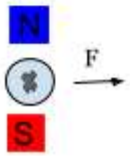 4. Исходя из правила левой руки, найдите ошибку 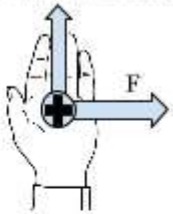 5. Определите направление силы Ампера 6. Определите в какую сторону направлены силы Ампера
Информатика Зубова ОН	**Тема:** Обобщение и систематизация основных понятий главы «Обработка числовой информации в электронных таблицах». **Задание:** 1. Повторить материал «Обработка числовой информации в электронных таблицах» https://lbz.ru/metodist/authors/informatika/3/files/eor9/presentations/9-3-2.ppt 2. Выполнить тест 1 вариант - https://onlinetestpad.com/hncd5urmhv7a6 2 вариант - https://onlinetestpad.com/hndjqa2mm75fm 3. Скрин результата выполнения теста отправить по адресу эл. почты zon80@mail.ru
Немецкий язык Гляйм.НВ	Стр.42. повторить слова.
История	Начало правления Николая 2, написать исторический портрет царя.

Алгебра	Смотреть в электронном журнале
<u>География</u> Отправить учителю на почту lady.nata0574@mail.ru	параграф 18 - 21, в тетради выполнить описание Центрального экономического района План характеристики экономического района . 1.Состав района (субъекты РФ входящие в экономический район). 2.Физико-географическое положение района: а) в каких широтах лежит б) в каких климатических поясах находится в) в каких природных зонах район находится г) чем омывается д) назовите формы рельефа, на которых расположен район (или которые находятся рядом с ним), тектоническая форма. 3.Эконом - географическое положение района: а) положение района на территории государства (окраинное, пограничное, центральное) б) экономическое окружение (соседние районы, пограничные государства) в) положение относительно крупнейших топливно - энергетических и сырьевых баз страны. г) положение относительно транспортных магистралей 4.Природа и природные предпосылки развития: а) природные ресурсы: почвенные, водные, рыбные, полезные ископаемые, рекреационные б) условия жизни и ведения хозяйства (благоприятные или неблагоприятные) 5.Этапы экономического развития района. 6. Население: а) численность населения (млн чел), б) плотность населения района (чел/км кв) в) доля городского населения в % г) этнический состав 7.Хозяйство (отрасли промышленности, агроклиматические ресурсы и сельское хозяйство): а) отрасли специализации б) какие еще отрасли хозяйства развиты 8.Проблемы района. 9.Перспективы развития.
Родной язык	Д/з выполнить задания на сайте АНО ЦРМ ОКО-9