Домашнее задание на 20.02.21.

1. **География, задания для 9АБВГ класса** .

Учитель Дегтярева Н.А. (эл. почта lady.nata0574@mail.ru)

9АБВ	параграф 18 - 21, в тетради выполнить описание Центрального экономического района План характеристики экономического района . 1.Состав района (субъекты РФ входящие в экономический район). 2.Физико-географическое положение района: а) в каких широтах лежит б) в каких климатических поясах находится в) в каких природных зонах район находится г) чем омывается д) назовите формы рельефа, на которых расположен район (или которые находятся рядом с ним), тектоническая форма. 3.Эконом - географическое положение района: а) положение района на территории государства (окраинное, пограничное, центральное) б) экономическое окружение (соседние районы, пограничные государства) в) положение относительно крупнейших топливно - энергетических и сырьевых баз страны. г) положение относительно транспортных магистралей 4.Природа и природные предпосылки развития: а) природные ресурсы: почвенные, водные, рыбные, полезные ископаемые, рекреационные б) условия жизни и ведения хозяйства (благоприятные или неблагоприятные) 5.Этапы экономического развития района. 6. Население: а) численность населения (млн чел), б) плотность населения района (чел/км кв) в) доля городского населения в % г) этнический состав 7.Хозяйство (отрасли промышленности, агроклиматические ресурсы и сельское хозяйство): а) отрасли специализации б) какие еще отрасли хозяйства развиты 8.Проблемы района. 9.Перспективы развития.

2. **Родная литература**

   Сообщение "Творчество А. Апухтина, примеры стихов"

3. **Алгебра**

Определение геометрической прогрессии. Формула *n*-го члена геометрической прогрессии	П. 27 (изучить), № 623 (а,б), 625 (а– в).

4. **Биология** Тема: *Основные закономерности эволюции*

Внимательно прочитайте параграф 42 учебника выполните в рабочей тетради практическую работу «Приспособленность организмов к среде обитания».
Выполняете работу по инструкции в учебнике (задание 1 и 3).
Присылать работу на почту не нужно, на следующий урок (26.02) тетрадь с выполненной работой сдаете.

5. **Физика**

1. Определите направление силы, действующую на проводник

2. Определите направление тока

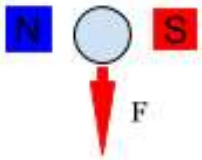

3. Найдите и объясните ошибку

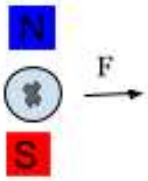

4. Исходя из правила левой руки, найдите ошибку

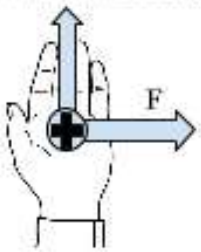

5. Определите направление силы Ампера

6. Определите в какую сторону направлены силы Ампера

6. **История Начало правления Николая 2, написать исторический портрет царя, параграфы у всех разные смотрите по теме.**